TOPLAMA İŞLEMİ PROBLEMLER

1. Yaren kitabından önce 8 sayfa okudu. Sonra 8 sayfa daha okudu. Yaren kitabından toplam kaç sayfa okudu?

2. Cemil tabaktaki fındıklardan 10 tanesini yedikten sonra tabakta 7 tane fındık kalmış. Yemeden önce tabakta kaç tane fındık vardı ?

3. Kenan 5 saat yolculuk yaptıktan sonra mola vermişler. Sonra 8 saat daha yolculuk yapmış. Kenan toplam kaç saat yolculuk yapmış?

4. Babam her gün 4 tane ekmek alıyor. Babam iki günde kaç tane ekmek alır?

5. Gürkan 8 yaşındadır. Gürkan 5 yıl sonra kaç yaşında olur?

6. Kübra her gün 10 sayfa kitap okuyor. Kübra iki günde kaç sayfa kitap okur ?

7. Oğuz 8 yaşındadır. Salih ise Oğuzdan 6 yaş büyüktür. Salih kaç yaşındadır?

8. Aysun 10 yaşındadır. Aysun 6 yıl sonra kaç yaşında olur ?

www.mebders.com zmacit58

9. Kutuda 9 tane boncuk vardı. Sinem 6 tane boncuk daha koydu. Kutuda kaç tane boncuk oldu?



10. Sepette 7 tane sarı 7 tane kırmızı elma var. Sepette kaç tane elma vardır ?



11. Ablam her gün 6 saat ders çalışıyor. Ablam iki günde kaç saat ders çalışır ?



12. Ağaçtaki kuşlardan 9 tanesi uçunca. geriye 6 tane kuş kalmış. Kuşlar uçmadan önce ağaçta kaç tane kuş vardı ?



13. Sınıfta her gün 9 tane problem çözüyoruz. İki günde toplam kaç tane problem çözeriz ?



14. Fatma 12 , Pelin 8 yaşındadır. İkisinin yaşları toplamı kaçtır ?



15. Vedat'ın 10 tane bilyesi vardı. Arkadaşı Vedat'a 6 tane daha bilye verdi. Vedat'ın kaç tane bilyesi oldu ?



16. Gizem'in 7 lirası vardı. Babası Gizem'e 5 lira daha verdi. Gizem'in kaç lirası olmuştur ?



www.mebders.com zmacit58