Problem: Sınıf kitaplığımızda 25 masal kitabı, masal kitaplarının 8 katı şiir kitabı, şiir kitaplarının 3 katı kadar da hikaye kitabı vardır. Sınıf kitaplığımızda toplam kaç kitap vardır?

Çözüm:



Problem: Bayramda dağıtmak için içerisinde 48 çikolata bulunan kutulardan 19 kutu alan babam toplam kaç çikolata almıştır?

Çözüm:

Problem: Paketi 26 lira olan cevizlerden 9 paket alan Hakan, kasiyere 300 lira vermiştir. Hakan kaç lira para üstü alır?

Çözüm:



Problem: Sude'nin kitaplığı 5 raftan oluşmaktadır. Her rafta 64 kitap vardır. Babası Sude'ye 28 kitap daha aldığına göre kitaplıkta toplam kaç kitap olur?

Çözüm:

@sinifcigunlugu

Problem: 257 sayısının 4 katının 497 fazlası kaçtır?

Çözüm:

Problem: Bir çiftlikte 68 tavuk vardır. 54'ü günde 9 yumurta, geri kalanları günde 7 yumurta vermektedir. Bu çiftlikteki tavuklar aünde kac vumurta vermektedir?

Çözüm:

Problem: Bir manavın 6 kasa elması vardır. Her kasada 85 elma vardır. Elmalarında 270 tanesini satan manavın kaç elması kalmıştır?

Çözüm:



Problem: Bir fırıncı her kasada 85 simit olan 17 kasa simit pişiriyor. Akşam elinde 120 simit kaldığına göre kaç simit satılmıştır?

Çözüm:

Problem: Bir çiftlikte 67 tavuk, 78 koyun vardır. Bu çiftlikteki hayvanların ayak sayıları toplamı kaçtır?

Çözüm:



Problem: Bir sürücü 75 km hız ile 4 saat, 85 km hız ile 2 saat yol alıyor. Bu sürücü kaç km yol gitmiştir?

Çözüm:

@sinifcigunlugu

Problem: 67 sayısının 9 katının 87 fazlası, 700'den kaç eksiktir ?

Çözüm:

Problem: Kumbarama her gün 75 TL atıyorum. Bir ay sonra kumbaramda kaç TL biriktirmiş olurum ?

Çözüm: