ÇARPMA İŞLEMİ PROBLEMLERİ



(Yukarıda bir manavdaki meyvelerin kilogram fiyatı verilmiştir.)

1. Bilge, manavdan 3 kilo elma ile 2 kilo muz alıyor. Bilge, manava kaç lira ödeme yapmalıdır?

2. Kısmet, manavdan 2 kilogram portakal, portakalın iki katı kadar da elma almıştır. Kısmet aldıkları için kaç lira ödeme yapar?

3. Barış, manavdan 4 kilo muz ile 1 kilo portakal alıyor. Manava 50 lira veren Barış kaç lira para üstü almalıdır?

4. Mustafa'nın 40 lirası vardır. Manavdaki ürünlerin her birinden üçer kilogram alan Mustafa'nın kaç lira daha ödeme yapması gerekir?

5. Elif'in poşeti en fazla 10 kilogram ağırlık taşıyabilmektedir. Manavdan 4 kilogram elma, 3 kilogram portakal alan Elif, poşetinin taşıyabileceği kadar da muz alıyor. Buna göre Elif aldıkları için kaç lira ödeme yapar?

ÇARPMA İŞLEMİ PROBLEMLERİ



(Yukarıda üç farklı çiftlikte bulunan hayvan sayıları verilmiştir.)

1. A çiftliğindeki hayvanların ayak sayıları toplamı kaçtır?

2. B çiftliğindeki koyun ve tavukların ayak sayıları toplamı kaçtır?

3. C çiftliğindeki ineklerin ayak sayıları tavukların ayak sayılarından kaç fazladır?

4. Üç çiftlikteki koyunların ayak sayıları toplamı kaçtır?

5. B ve C çiftliğindeki tavukların ayak sayıları, A ve B çiftliğindeki koyunların ayak sayıları toplamından kaç eksiktir?

ÇARPMA İŞLEMİ PROBLEMLERİ



(Yukarıda üç farklı bal arısının bir günde kondukları çiçek sayıları verilmiştir.)

1. Arı Vızz ile arı Bızz beş günde toplam kaç çiçeğe konarlar?

2. Arı Vızz ile arı Cızz üç günde toplam kaç çiçeğe konarlar?

3. Arı Vızz, arı Cızz ve arı Dızz birlikte dört günde toplam kaç çiçeğe konarlar?

4. Arı Dızz, Arı Vızz'ın bir günde konduğu çiçek sayısının 8 katından 20 eksik çiçeğe konmaktadır.

Buna göre Arı Dızz iki günde toplam kaç çiçeğe konar?

5. Arı Vızz ile arı Cızz'ın iki günde kondukları çiçek sayısı, arı Bızz ile arı Cızz'ın üç günde kondukları çiçek sayısından kaç eksiktir?