TOPLAMA VE ÇIKARMA İŞLEMİ İLE İLGİLİ PROBLEMLER

1. Otobüste 45 tane yolcu vardı. Durakta 15 yolcu indi. Otobüste kaç yolcu kalmıştır?

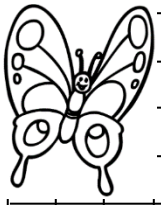

2. Uğur aldığı boyaya 24 lira , deftere ise 13 lira ödedi. Uğur aldıklarına toplam kaç lira ödedi?

3. Arda 55 tane problemin 25 tanesini çözmüş. Geriye çözülecek kaç problem kalmıştır?

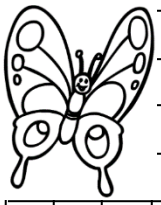

4. Bahçede oyun oynayan 47 çocuğun 7 tanesi okula girdi. Bahçede kaç tane çocuk kalmıştır?

5. Buzdolabında 12 tane beyaz , 17 tane kırmızı yumurta var. Buzdolabında toplam kaç tane yumurta var?

6. Ağaçta 39 tane kuş vardı. Kuşlardan 16 tanesi uçtu. Ağaçta kaç tane kuş kalmıştır ?



7. Selin 36 sayfa olan kitabından 23 sayfa okudu. Geriye okunacak kaç sayfa kalmıştır?

8. Melih ve Gürkan'ın bilye sayıları aynıdır. Melih'in 23 bilyesi olduğuna göre , ikisinin toplam kaç bilyesi vardır?



www.mebders.com zmacit58